ESCOLA:		
ALUNO:		
ANO:	DATA: ____/____/____	VALOR:
PROFESSORA:		NOTA:

AVALIAÇÃO DIAGNÓSTICA DE MATEMÁTICA

QUESTÃO 01

COMPLETE A SEQUÊNCIA NUMÉRICA ABAIXO COM BASTANTE ATENÇÃO.





==========

QUESTÃO 02

CIRCULE O MACAQUINHO MAIS ALTO.



PRODUZIDO POR @KAUPEDROSA.PROF

QUESTÃO 03

QUAL É O ANTECESSOR E SUCESSOR DOS NÚMEROS ABAIXO.

	2	
	5	
	8	
	11	
	15	



==========

QUESTÃO 04

QUAL PRATO TEM MAIS OSSO. AJUDE TOTÓ A DESCOBRIR PINTE- O.







==========

QUESTÃO 05

REGISTRE A QUANTIDADE INDICADA.







PRODUZIDO POR @KAUPEDROSA.PROF

==========

QUESTÃO 06

CIRCULE SOMENTE OS NÚMEROS.

2 C & E 6 B 8 L

15 P * 1 M 0 P 5

QUESTÃO 07

ESCREVA O NÚMEROS QUE A PROFESSORA DITAR DENTRO DAS MAÇÃS.



==========

QUESTÃO 08

CALCULE AS OPERAÇÕES ABAIXO.

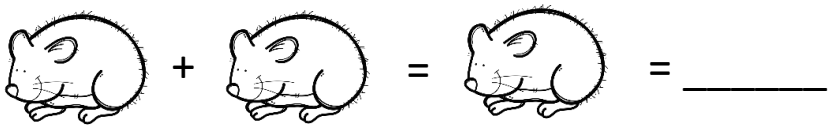

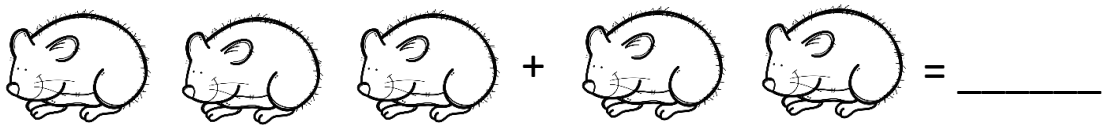

==========

QUESTÃO 09

PINTE AS FIGURAS GEOMÉTRICAS DE ACORDO A LEGENDA:

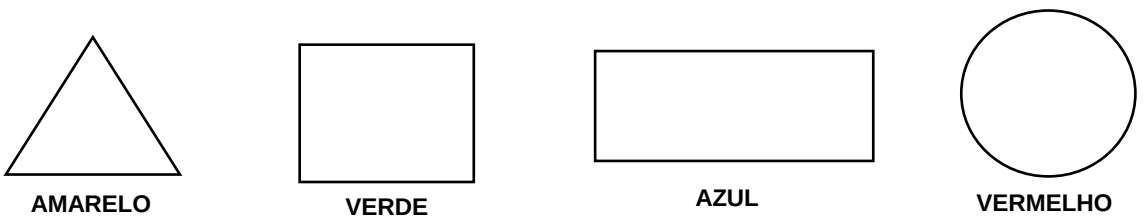

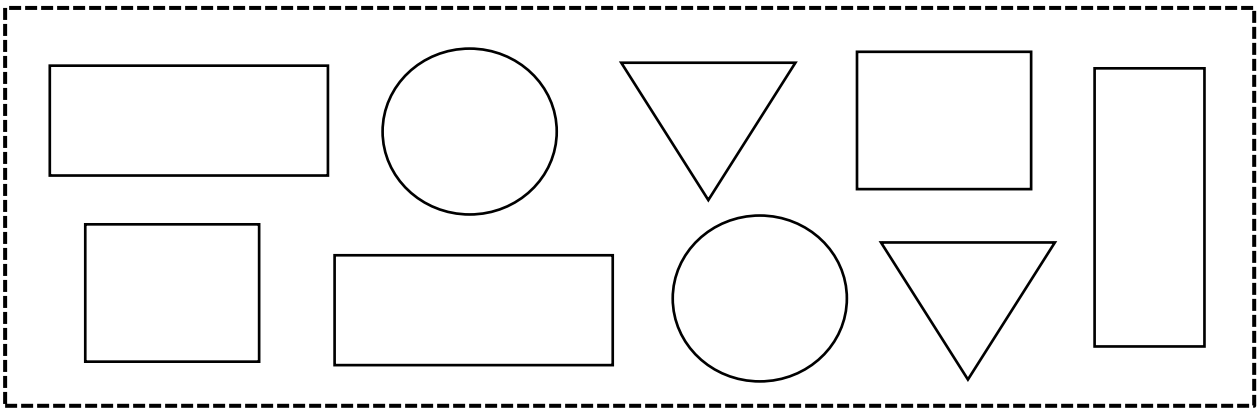

PRODUZIDO POR @KAUPEDROSA.PROF

TERMO DE USO

Olá, estou muito feliz! Obrigado por adquirir este produto ele foi feito com muito carinho para você.

Este produto foi elaborado pela professora Cláudia Pedrosa.

- A utilização desse material é apenas para **uso pessoal**.
- **Você não** pode **vender** ou revender esse material.
- Não **compartilhar** por e-mails, Whats zapp, Facebook, Instagram, Grupo de Telegram.

Material protegido por **direitos autorais** conforme lei nº 9.610, de 19 de fevereiro de 1.998. Evite problemas jurídicos.

MAIORES INFORMAÇÕES:

(33) 9-8888-6107 @Kaupedrosa.prof

SITE: cirandapedagogica.com.br

DIREITO DE IMAGEM